GALILEO Z GEOGRAFII /ROK 2022/

SZKOŁA PODSTAWOWA KLASA 6

G6

PAMIĘTAJ!!! Ostateczne rozwiązania zaznacz na karcie odpowiedzi.

1. Do sfer Ziemi nie należy:

- ☐ A) antroposfera
- ☐ B) hydrosfera
- ☐ C) biosfera
- ☐ D) toposfera

2. Mikołaj Kopernik urodził się w:

- ☐ A) Warszawie
- ☐ B) Toruniu
- ☐ C) Padwie
- ☐ D) Fromborku

3. Która z wymienionych planet leży najbliżej Ziemi?

- ☐ A) Saturn
- ☐ B) Merkury
- ☐ C) Neptun
- ☐ D) Mars

4. Ruch obrotowy Ziemi:

- ☐ A) odbywa się zgodnie z ruchem wskazówek zegara
- ☐ B) powoduje, że Ziemia obraca się o 4 stopnie kątowe w ciągu godziny
- ☐ C) odbywa się z zachodu na wschód
- ☐ D) odbywa się ze wschodu na zachód

5. W następstwie ruchu obrotowego:

- ☐ A) występuje dzień i noc polarna
- ☐ B) w ciągu roku zmienia się miejsce wschodu i zachodu Słońca
- ☐ C) na niebie możemy obserwować pozorny ruch gwiazd
- ☐ D) długość dnia i nocy w Polsce zmienia się w ciągu roku

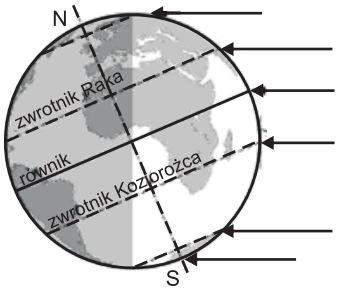

6. Na podstawie rysunku, zaznacz zdanie właściwe.

- ☐ A) Na biegunie południowym rozpoczyna się noc polarna.
- ☐ B) Na półkuli północnej zaczyna się lato.
- ☐ C) Na Zwrotniku Koziorożca trwa najkrótszy dzień w ciągu roku.
- ☐ D) Na Zwrotniku Koziorożca trwa najdłuższy dzień w ciągu roku.

7. Promienie słoneczne padają prostopadle na równik:

- ☐ A) 22 czerwca
- ☐ B) 21 marca
- ☐ C) 21 grudnia
- ☐ D) 21 marca i 23 września

8. Zaznacz błędne zdanie na temat szerokości geograficznej.

- ☐ A) może być północna lub południowa
- ☐ B) ma wartości od 0 do 90 stopni
- ☐ C) wyznaczana jest za pomocą równoleżników
- ☐ D) może być wschodnia lub zachodnia

9. Z rysunku można odczytać, że:

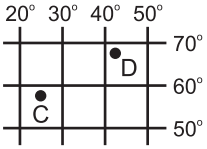

- ☐ A) punkt C leży dalej od południka 0 niż punkt D
- ☐ B) obydwa punkty leżą na półkuli południowej
- ☐ C) bliżej bieguna północnego leży punkt C
- ☐ D) punkt D leży na ok. 42 stopniu długości geograficznej wschodniej

10. Prawidłowo zapisane współrzędne punktu C z powyższego rysunku to:

- ☐ A) 61°S, 25°E
- ☐ B) 61°N, 25°W
- ☐ C) 59°E, 25°S
- ☐ D) 59°N, 25°E

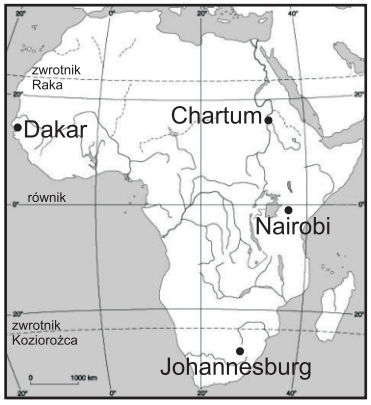

11. Na zamieszczonej mapie:

- ☐ A) wszystkie zaznaczone miasta leżą na półkuli północnej
- ☐ B) najmniejszą wartość długości geograficznej ma Nairobi
- ☐ C) 3 z zaznaczonych miast leżą w międzyzwrotnikowej strefie oświetlenia Ziemi
- ☐ D) w Johannesburgu Słońce góruje w zenicie 2 razy w ciągu roku

12. Obszar Europy leży na półkuli:

- ☐ A) północnej, południowej i zachodniej
- ☐ B) północnej, wschodniej i zachodniej
- ☐ C) południowej, wschodniej i zachodniej
- ☐ D) północnej, południowej i wschodniej

© Copyright by CES, www.ces.edu.pl

13. Do państw leżących na terytorium Europy i Azji, nie należy:

☐ A) Kazachstan ☐ B) Rosja ☐ C) Ukraina ☐ D) Turcja

14. Państwo, którego zjednoczenie nastąpiło pod koniec XX wieku to:

☐ A) Niemcy ☐ B) Francja ☐ C) Wielka Brytania ☐ D) Rosja

15. Kontynent europejski:

☐ A) w większości ma ukształtowanie wyżynne
☐ B) ma słabo rozwiniętą linię brzegową
☐ C) charakteryzuje się zróżnicowanym ukształtowaniem terenu
☐ D) jest najmniejszym kontynentem na kuli ziemskiej

16. Ludność europejska:

☐ A) zwiększa swoją liczbę w szybkim tempie
☐ B) rozmieszczona jest równomiernie na całym kontynencie
☐ C) jest społeczeństwem starzejącym się
☐ D) charakteryzuje się wysokim przyrostem naturalnym w ostatnich latach

17. Skutkiem starzenia się społeczeństwa, nie jest:

☐ A) coraz mniejszy udział osób pracujących
☐ B) wzrost wydatków państwa na emerytury
☐ C) niski przyrost naturalny w społeczeństwie
☐ D) znaczny udział w społeczeństwie osób pobierających emerytury i renty

18. Na zdjęciu przedstawiono:

☐ A) Katedrę Notre Dame ☐ B) Wieżę Eiffla
☐ C) muzeum Luwr ☐ D) Wersal

19. Do zabytków Londynu, nie należy:

☐ A) Tower Bridge ☐ B) pałac Buckingham
☐ C) Wersal ☐ D) Big Ben

20. Stolicą państwa zaznaczonego na mapie jest:

☐ A) Bukareszt ☐ B) Bratysława
☐ C) Budapeszt ☐ D) Kopenhaga

21. Węgry:

☐ A) to kraj wyspiarski ☐ B) są krajem bogatym w surowce mineralne
☐ C) mają dostęp do morza ☐ D) są krajem średniozamożnym

22. Do działów przemysłu nie należy:

☐ A) wytwarzanie energii elektrycznej ☐ B) dostarczanie wody
☐ C) hodowla zwierząt ☐ D) wydobycie surowców mineralnych

23. Całkowita wartość dóbr i usług wytworzonych w danym państwie w ciągu roku to:

☐ A) PKB ☐ B) PKO ☐ C) PKD ☐ D) PKN

24. Głównym obszarem wydobycia ropy naftowej i gazu ziemnego jest Morze:

☐ A) Bałtyckie ☐ B) Śródziemne ☐ C) Norweskie ☐ D) Północne

25. Według poniższego wykresu, przedstawiającego strukturę produkcji energii elektrycznej w Europie:

☐ A) odnawialne źródła energii stanowią $\frac{1}{4}$ produkcji elektrycznej
☐ B) gaz ziemny i ropa naftowa mają w sumie większy udział niż energia atomowa
☐ C) dominują nieodnawialne źródła energii
☐ D) źródła odnawialne stanowią 50% źródeł nieodnawialnych

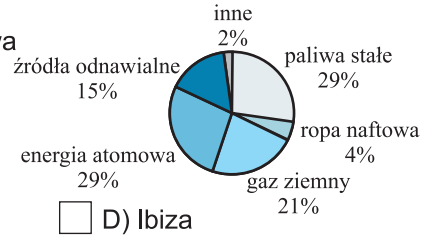

26. Do archipelagu Balearów, nie należy:

☐ A) Majorka ☐ B) Sardynia ☐ C) Minorka ☐ D) Ibiza

© Copyright by CES, www.ces.edu.pl